Byg treklangen

Navn

Tag en tone, spring en over, tag den næste, spring en over, og tag den næste.

1 Hvilken akkord?

Tonerne står i rod. Læg dem, så der er sprunget en over imellem, og skriv akkordens navn.

SE HER

G · C · E

1	3	5
C	E	G

Navn: C

1 **A · D · F**

1	3	5

Navn:

2 **D · H · G**

1	3	5

Navn:

3 **C · A · E**

1	3	5

Navn:

4 **H · E · G**

1	3	5

Navn:

2 Med en sort tangent

Byg akkorden, og skriv de tre toner. Dur har fire halvtoner op til den midterste, mol har tre.

Sorte tangenter har to navne: C# eller Des · D# eller Es · F# eller Ges · G# eller As · A# eller B. I dur skrives de med #, i mol med b.

SE HER

D-dur

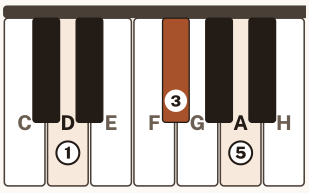

1	3	5
D	F#	A

1 **E-dur**

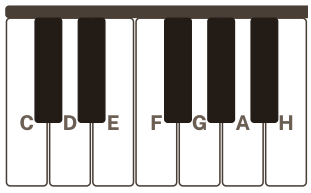

1	3	5

2 **A-dur**

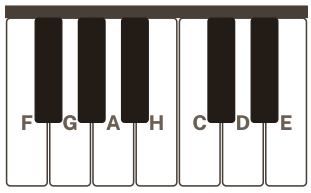

1	3	5

3 **C-mol**



1	3	5

4 **G-mol**

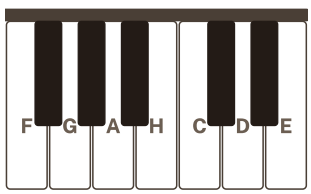

1	3	5

5 **F-mol**

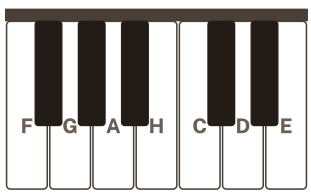

1	3	5

Byg akkorden selv på klaviaturet i Dur eller mol?: Akkorderne, del 1.
laering.creativesystemlab.dk/spil/musikvaerkstedet
Gratis · uden login · intet gemmes

Dur eller mol?

Navn

En halvtone er ét skridt til nabotangenten. Fire op til den midterste er dur, tre er mol.

1 De syv akkorder i C-dur

Byg en akkord på hver tone i C-dur. Skriv tonerne, og om den er dur, mol eller formindsket.

	Trin	1	3	5	Dur, mol eller formindsket	Navn
SE HER	I	C	*E*	*G*	*dur*	*C*
1	ii	D				
2	iii	E				
3	IV	F				
4	V	G				
5	vi	A				
6	vii°	H				

2 Hvorfor ikke ens?

Alle syv står på de hvide tangenter. Skriv, hvorfor nogle er dur og andre mol.

Hvad er forskellen på C og Cm?

SE HER

Den midterste tone. I C er det E, i Cm er det Es, en halvtone lavere.

Tryk på Vend tertsen, og hør dur blive til mol: Akkorderne, del 1.
laering.creativesystemlab.dk/spil/musikvaerkstedet
Gratis · uden login · intet gemmes

Fællestonerne

Navn

Akkorder, der deler toner, glider over i hinanden.
Dem, der deler ingen, springer.

TONEARTENS SYV AKKORDER

C C E G **Dm** D F A **Em** E G H **F** F A C **G** G H D **Am** A C E **H°** H D F

1 Find naboerne

To akkorder, der deler to toner, er naboer. Skriv de to naboer til hver akkord.

SE HER **C** C E G — Naboer *Am* og *Em*

① **Dm** D F A — Naboer ____ og ____

② **F** F A C — Naboer ____ og ____

③ **G** G H D — Naboer ____ og ____

④ **Am** A C E — Naboer ____ og ____

2 Byg en rundgang

Skriv fire forskellige akkorder fra C-dur. Hver skal dele mindst én tone med den næste, også den sidste med den første. Læg tallene sammen.

SE HER

Takt 1		Takt 2		Takt 3		Takt 4	↻ til takt 1		
C	*2*	*Em*	*1*	*Am*	*2*	*F*	*1*	=	*6*

①

Takt 1		Takt 2		Takt 3		Takt 4	↻ til takt 1		
								=	

②

Takt 1		Takt 2		Takt 3		Takt 4	↻ til takt 1		
								=	

Plads til at skrive og regne

Læg fire akkorder i takterne på Akkordhjulet: Akkorderne, del 2.
laering.creativesystemlab.dk/spil/musikvaerkstedet
Gratis · uden login · intet gemmes